（学習日：　　月　　日）　　（　　組）　　番【氏名　　】

地理プリント

ヨーロッパの範囲と地域区分

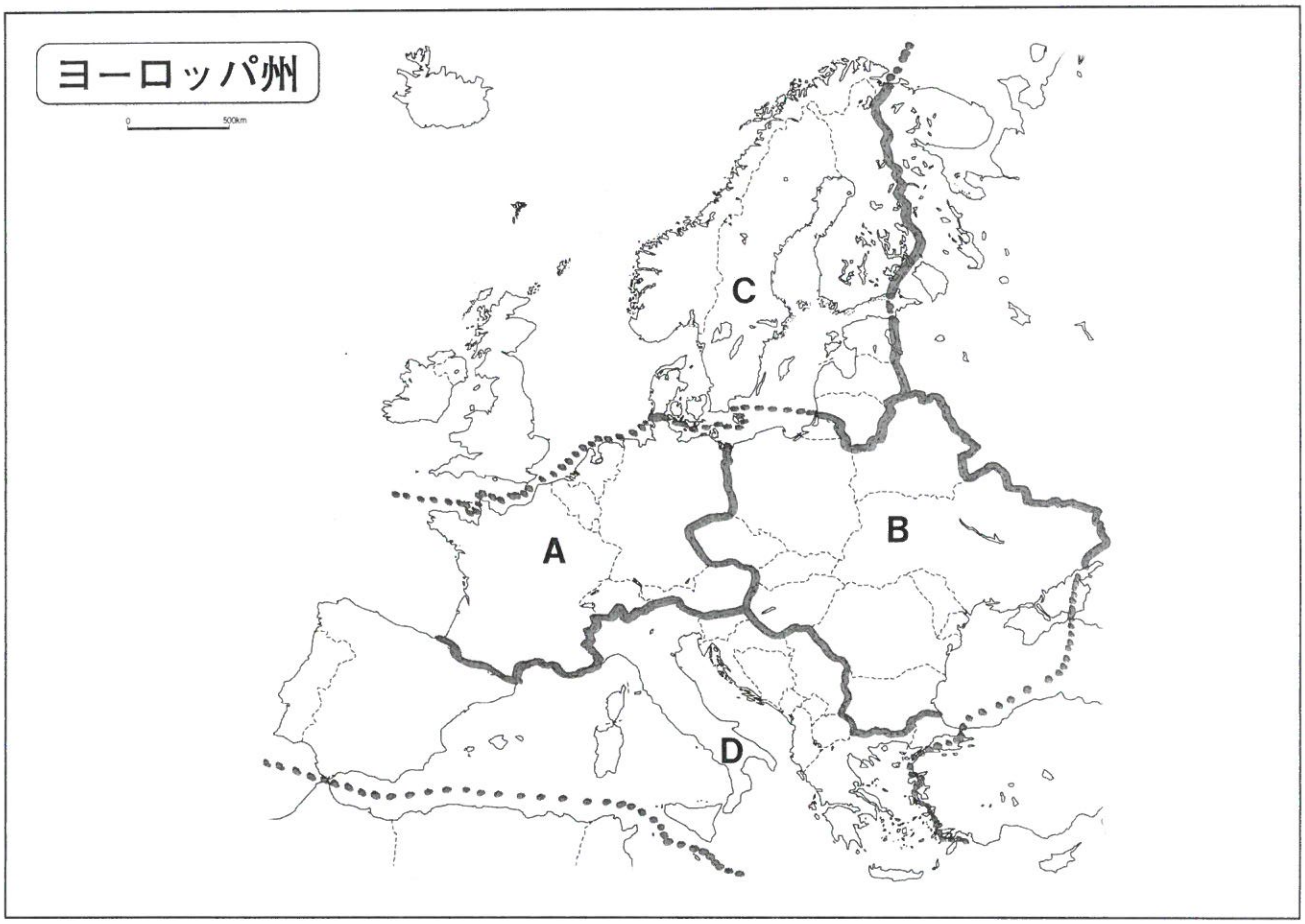

1．ヨーロッパ州は【北ヨーロッパ（北欧）・東ヨーロッパ（東欧）・西ヨーロッパ（西欧）・南ヨーロッパ（南欧）】の４つに分かれている。地図中のＡ～Ｄはどれに当てはまるか。

Ａ：（ 西ヨーロッパ（西欧） ）　Ｂ：（ 東ヨーロッパ（東欧） ）

Ｃ：（ 北ヨーロッパ（北欧） ）　Ｄ：（ 南ヨーロッパ（南欧） ）

2．次の国々は地図中のＡ～Ｄのうち、どの地域に属するか。

Ａ：（ フランス、ドイツ、オーストリア ）

Ｂ：（ ポーランド、ブルガリア、ウクライナ、ハンガリー、チェコ ）

Ｃ：（ イギリス、ノルウェー、スウェーデン、フィンランド、デンマーク ）

Ｄ：（ イタリア、ギリシャ、スペイン、ポルトガル、セルビア ）

フランス	イギリス	イタリア	ノルウェー	ポーランド	スウェーデン
ギリシャ	スペイン	ドイツ	フィンランド	デンマーク	ブルガリア
ウクライナ	セルビア	ハンガリー	ポルトガル	チェコ	オーストリア

（学習日：　　月　　日）　　（　　組）　　番【氏名　　】

地理プリント　ヨーロッパの基礎基本（国名編）

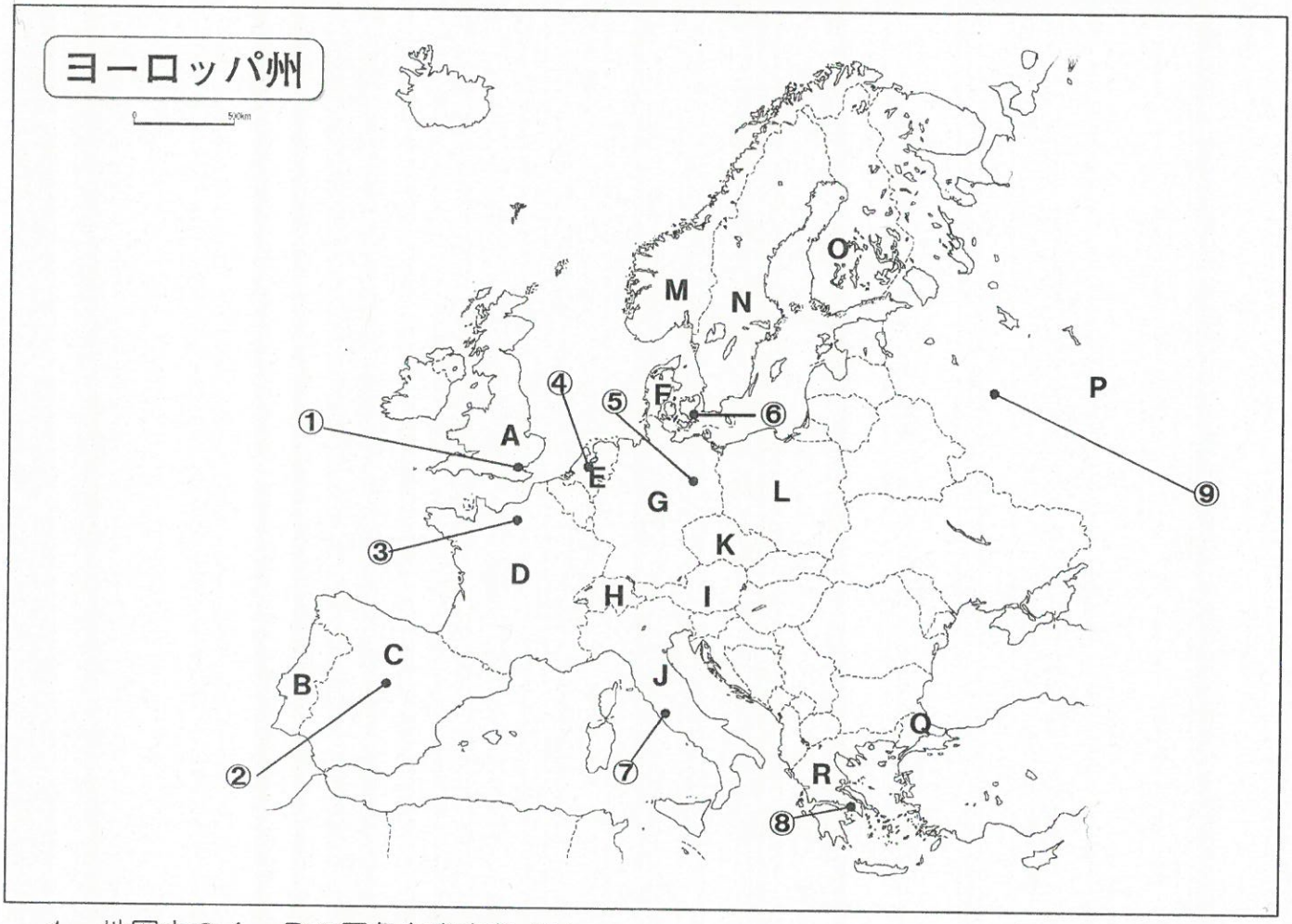

1．地図中のA～Rの国名を書きなさい。

☆A：（イギリス）	☆G：（ドイツ）	M：（ノルウェー）
B：（ポルトガル）	☆H：（スイス）	N：（スウェーデン）
☆C：（スペイン）	I：（オーストリア）	O：（フィンランド）
☆D：（フランス）	☆J：（イタリア）	☆P：（ロシア連邦）
☆E：（オランダ）	K：（チェコ）	Q：（トルコ）
F：（デンマーク）	L：（ポーランド）	R：（ギリシャ）

2．地図中の①～⑨の首都名を書きなさい。

①：（ロンドン）	④：（アムステルダム）	⑦：（ローマ）
②：（マドリード）	⑤：（ベルリン）	⑧：（アテネ）
③：（パリ）	⑥：（コペンハーゲン）	⑨：（モスクワ）

（学習日：　　月　　日）　　（　　組）　　番【氏名　　】

地理プリント

ヨーロッパの基礎基本（地形編）

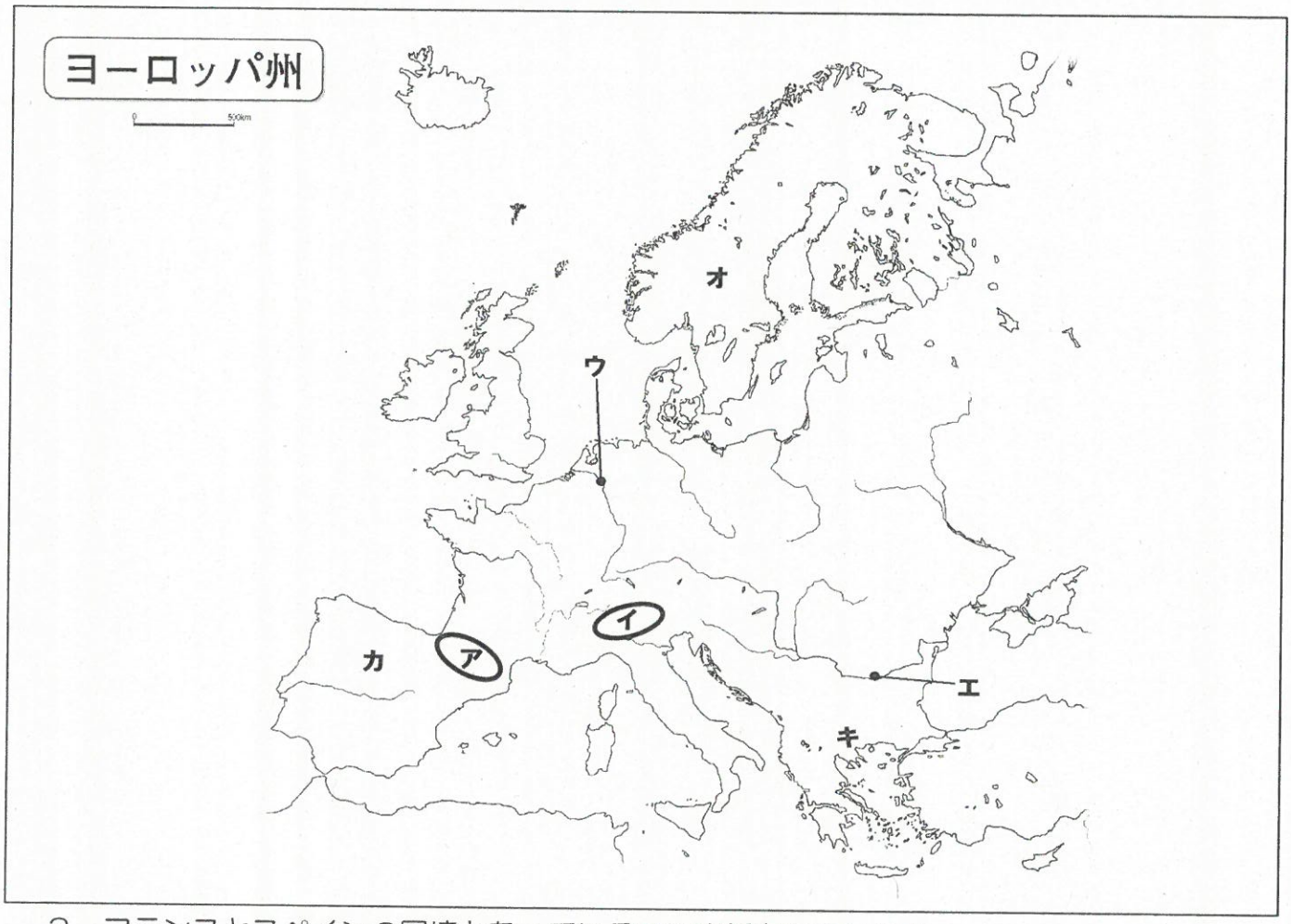

3．フランスとスペインの国境となっている**ア**の山脈を何というか。

（　ピレネー　山脈）

4．イタリアとスイス・オーストリアとの国境となっている**イ**の山脈を何というか。

（　アルプス　山脈）

5．ドイツとフランスの国境を流れ北海にそそぐ**ウ**の国際河川を何というか。

（　ライン　川）

6．ルーマニアとブルガリアの国境を流れ黒海にそそぐ**エ**の国際河川を何というか。

（　ドナウ　川）

7．ノルウェーやスウェーデンがある**オ**の半島を何というか。

（　スカンディナビア　半島）

8．スペインやポルトガルがある**カ**の半島を何というか。　（　イベリア　半島）

9．ギリシャやブルガリア、セルビアなどがある**キ**の半島を何というか。

（　バルカン　半島）

（学習日：　　月　　日）　　（　　組）　　番【氏名　　】

地理プリント

ヨーロッパの農業と工業の特徴　読み取り問題

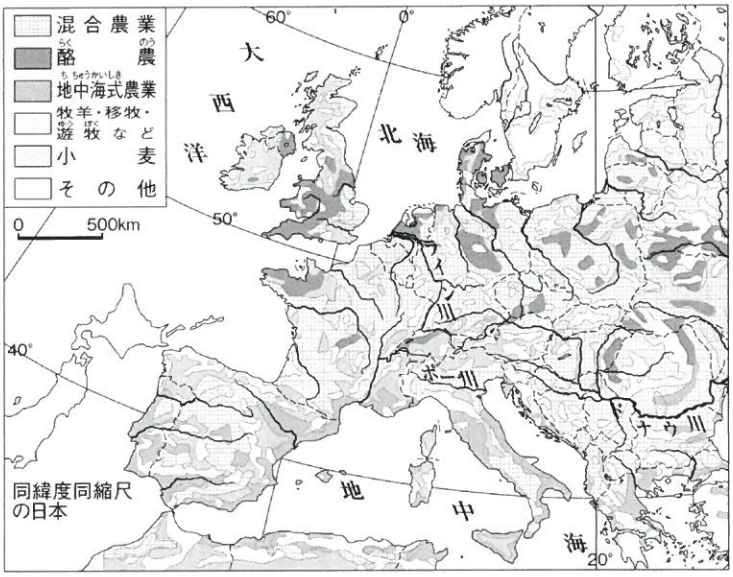

↑ヨーロッパの農業地域

〈ディルケアトラス　２００８年，ほか〉

↑ヨーロッパのおもな工業地域

〈ディルケアトラス　２００８年，ほか〉

【問題１】ヨーロッパの農業地域の図を説明した文章の空欄を埋めなさい。

ヨーロッパでは、伝統的に地域の自然にあった農業が行われてきた。（１　アルプス　）山脈より南の地域では、夏は高温で乾燥しているのでオレンジやぶどう、オリーブを栽培し、比較的湿潤な冬は小麦を栽培する（２　地中海式　）農業が行われてきた。

（１）山脈より北の地域では、豚や牛などの家畜の飼育と、小麦などの麦類や家畜のえさにする作物の栽培とを組み合わせた（３　混合　）農業が行なわれてきた。

さらに北に位置する北緯 50°付近のデンマークやオランダでは乳牛を飼い、バターやチーズを生産する（４　酪農　）が盛んである。

【問題２】ヨーロッパのおもな工業地域の図を説明した文章の空欄を埋めなさい。

（５　フランス　）は、ヨーロッパ各国で製造された部品を組み立てる航空機産業が盛んな国であり、その生産量はアメリカに次ぐ世界第２位である。

（６　ドイツ　）は、鉄鋼業や自動車産業が盛んな国であり、古くから発達したルール工業地帯の周辺では（７　石炭　）が豊富に採掘される。

（８　イギリス　）は、北東に（９　北海　）油田をもつ産油国である。

（学習日：　　月　　日）　　（　　組）　　番【氏名　　】

社会科地理プリント　**ヨーロッパ州のまとめ**

【重要語句編】教科書５２～６２ページを見て書きなさい。

1．氷河によって削られた複雑な海外線の地形を何というか。　（ フィヨルド ）
2．西から東に向かって、一年中吹く風を何というか。　（偏西 風）
3．1993年に誕生したヨーロッパの統合をめざす組織を何というか。（ヨーロッパ連合（EU））
4．上記の組織で使われている共通通貨を何というか。　（ユーロ）
5．アルプス山脈より北の地域で行われている、穀物や飼料作物の栽培、家畜の飼育を組み合わせるために畑を分割し、毎年農地を変える農業を何というか。　（混合 農業）
6．ドイツより北部や山脈地帯などの涼しい地域で盛んな、バターやチーズを生産する農業を何というか。　（酪農）
7．アルプス山脈より南の地域で行われている、乾燥する夏にオレンジ、ぶどう、オリーブなど、雨が降る冬に小麦などを栽培する農業を何というか。（地中海式 農業）

【国の特徴編】次のＡ～Ｈの説明に合うヨーロッパ州の国名を書きなさい。

A　EU最大の工業国。古くからルール工業地域を中心に鉄鋼・機械・自動車などの生産が盛ん。混合農業が行われ、北海沿岸では酪農も盛ん。日本とほぼ同じ面積。
国名：（ ドイツ ）

B　かつて最も早く産業革命を起こし、世界の工場と呼ばれた島国。正式名称はグレートブリテンおよび北部アイルランド連合王国（ユナイテッド・キングダム）。暖流の北大西洋海流と偏西風の影響で冬でも温暖である。北海油田の開発で、石油産出国となった。本初子午線の基準国でもある。　**国名：（ イギリス ）**

C　社会保障制度が発達した国。スカンディナビア半島の東に位置し、ノルウェーとの国境にはスカンディナビア山脈が走る。ノーベル賞を与える国としても知られる。夏は白夜となり午後10時くらいまで明るい。北欧神話が語り継がれている。
国名：（ スウェーデン ）

D　EU最大の農業国。国土の半分以上が農地。混合農業で小麦やトウモロコシを栽培し、EU各国に輸出している。シャンパーニュ地方ではブドウとワインの生産が盛ん。
国名：（ フランス ）

E　地中海に面した長靴の形をした国。気候は地中海性気候で夏暑く乾燥する。地中海式農業でブドウやオリーブ、トマトなどを栽培している。冬には小麦もとれる。首都には遺跡が多く世界遺産に登録されているほか、世界最小のバチカン市国もある。
国名：（ イタリア ）

F　風車とチューリップと酪農の国。正式名称はネーデルラント（低い土地）、他国からはダッチと呼ばれる。風車によって海水をかき出した干拓地ポルダーが国土の４分の１をしめる。ライン川の河口に位置し、EU共同の港ユーロポートを中心に海運が盛ん。江戸時代、鎖国下の日本と貿易をしていた。　**国名：（ オランダ ）**

G　ユーラン（ユトランド）半島とその周辺の島々からなる世界的な酪農国。グリーンランドを領地にしている。人魚姫などの童話で有名なアンデルセンの出身国でもある。
国名：（ デンマーク ）

H　ピレネー山脈の西側に位置し、かつて太陽の沈まない帝国と呼ばれた国。地中海式農業でオリーブやコルク、ぶどう、トマトなどが多く栽培されている。畜産も盛ん。闘牛やシエスタ、トマト祭など独自の文化がみられる。　**国名：（ スペイン ）**